בס"ד

אתגר המעגלים

הוראות: תבדקו גם את הדוגמא <<<<<<<<<<<<<<<<<<<<<<<<<<<

1. **עליכם למלא את המעגלים במספרים מ-0 עד 12**
2. **כל מעגל מחובר למעגלים אחרים באמצעות קווים**
3. **סכום המספרים במעגלים המחוברים צריך להתאים לערך שברשימה**

1 = 14 (4+7+3)
4 = 8 (7+1)
7 = 5 (4+1)
3 = 1

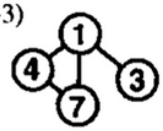

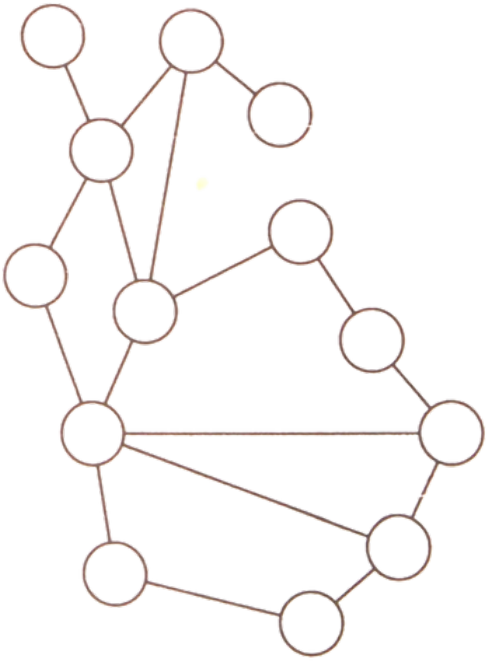

0 = 5
1 = 10
2 = 39
3 = 24
4 = 7
5 = 13
6 = 34
7 = 16
8 = 3
9 = 8
10 = 12
11 = 9
12 = 6

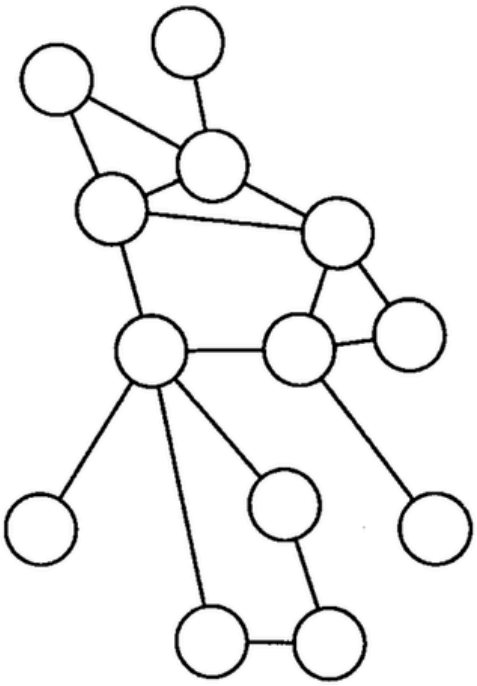

0 = 20
1 = 26
2 = 6
3 = 11
4 = 1
5 = 24
6 = 37
7 = 16
8 = 6
9 = 17
10 = 19
11 = 18
12 = 16

אהבתם? חיים כ"ץ שולח מידי שבוע אתגרים חדשים ללא עלות! תשלחו מייל ל a0533180118@gmail.com ותצורפו

כל הזכויות שמורות